

ՄԱԹԵՄԱՏԻԿԱ 1

Կազմող՝
Լուսինե Փաշայան

Մաթեմատիկա

Առաջին դասարան

Աշխատանքային
փաթեթ

Երկրորդ մաս

ՄԽԻԹԱՐ
ՍԵԲԱՍՏԱՑԻ
ԿՐԹԱՀԱՄԱԼԻՐ
«Իմացումի հրճվանք»
կրթական ծրագիր

Իմ էլ. փոստի հասցեն
՝ l.pashayan@mskh.am

1. Հաշվի՛ր և գրանցի՛ր առարկաների քանակը:

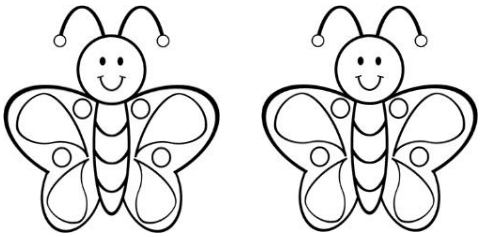	
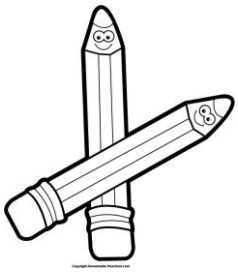	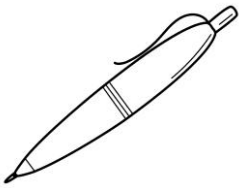
	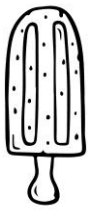
	

1. Ավելացրո՛ւ պակասող պատկերները:

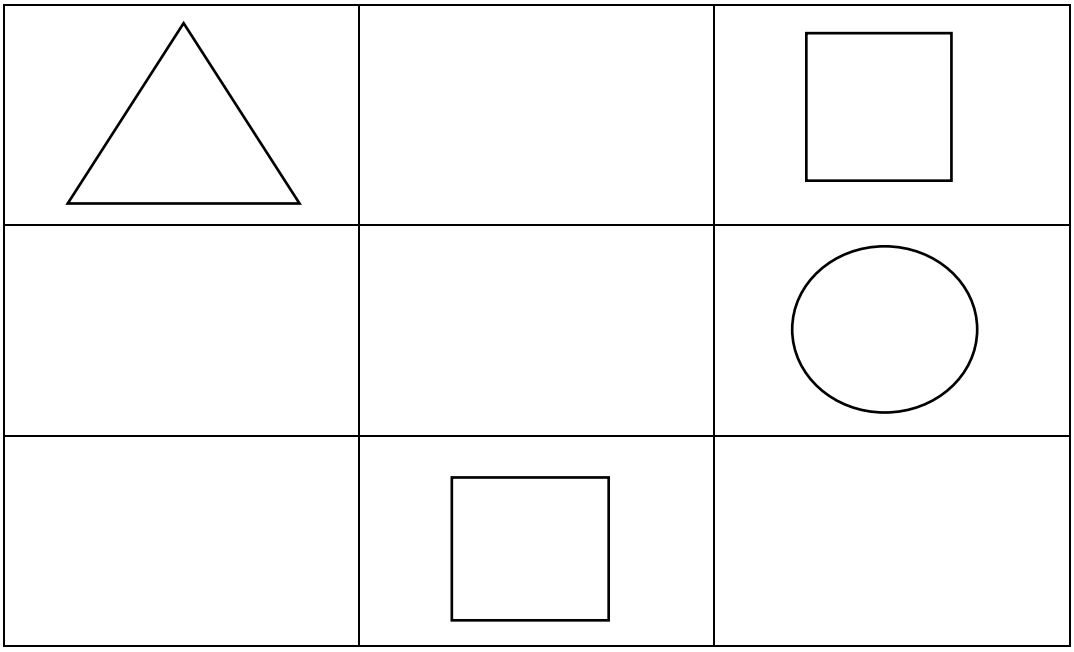

2. Քանի՞ առարկա կա: Նշի՛ր ճիշտ պատասխանը:

			
1 2	1 2	1 2	1 2

3. Համեմատի՛ր և դի՛ր համապատասխան նշանը (< = >):



1. Գտի՛ր թաքնված առարկաները:



1. *Հաշվի՛ր և գրանցի՛ր առարկաների քանակը:*

	
	
	
	

1. Ներկի՛ր նշված քանակով։

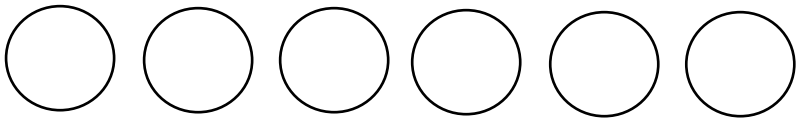	3
	4
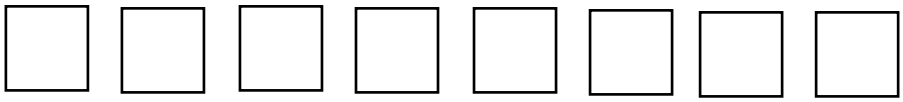	3
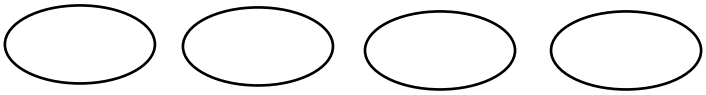	1

2. Ներկի՛ր. 1 - մոխրագույն, 2 – կանաչ, 3 – կարմիր, 4 – դեղին

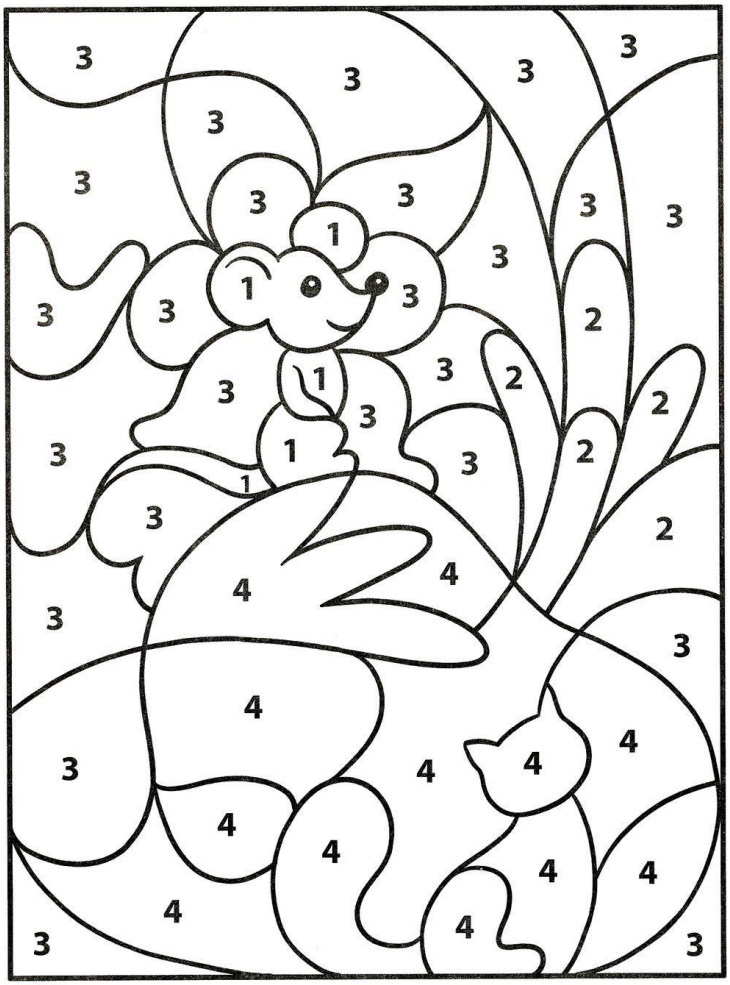

1. Քանի՞ պատկեր կա: Հաշվի՛ր և գրի՛ր:

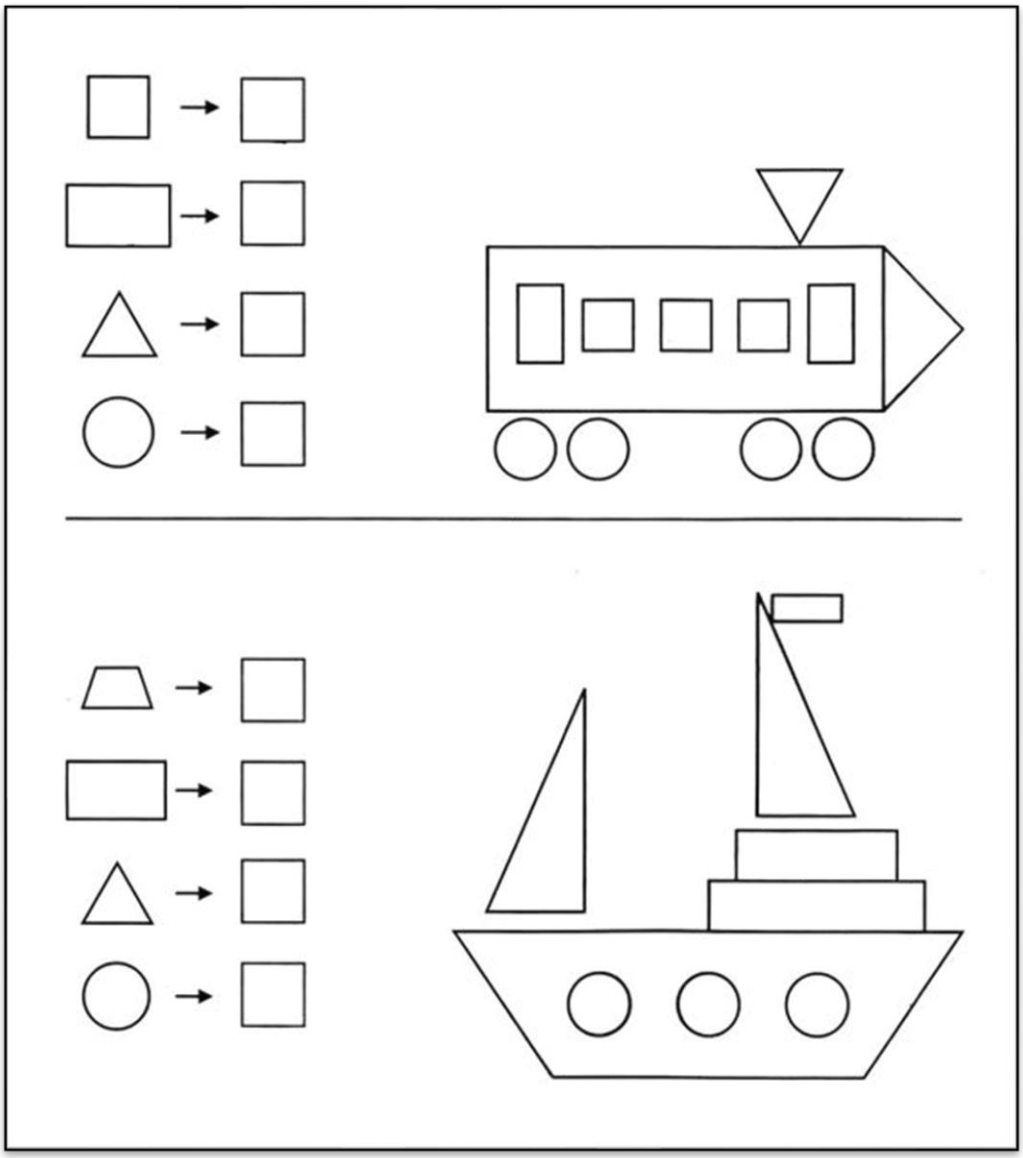

2.Գրի՛ր հարևան թվերը:

	2	

	4	

	3	

3. Համեմատի՛ր և դի՛ր համապատասխան նշանը

2		**3**

3		**1**

4		**3**

1. *Ներկի՛ր շարքում առաջին և երրորդ երեխաների հագուստը:*



2. *Լրացրո՛ւ պակասող թվերը:*

1		3	

	2	3	

1			4

1		3	

1. Համեմատի՛ր և դի՛ր համապատասխան նշանը։





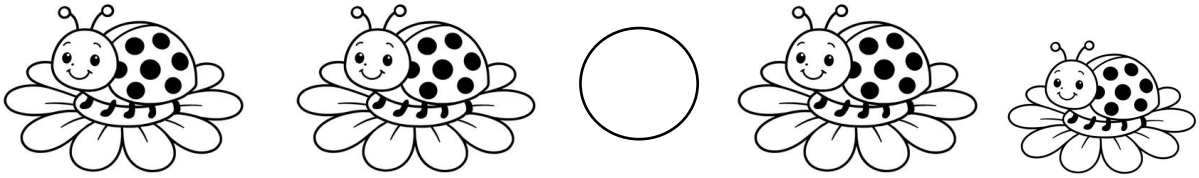

2. Ավելացրո՛ւ ևս մեկ պատկեր

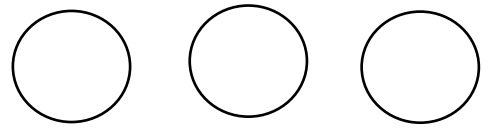

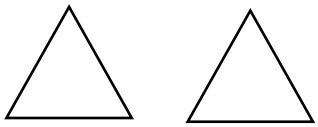





1. Լրացրո՛ւ պակասող պատկերները։



2. Գտի՛ր թաքնված առարկան։



1. Քանի՞ առարկա կա: Նշի՛ր ճիշտ պատասխանը:

		
1 2 3 4	1 2 3 4	1 2 3 4

		
1 2 3 4	1 2 3 4	1 2 3 4

2. Հաշվի՛ր և համեմատի՛ր առարկաների քանակը (<=>) :

		
		

1. Ներկի՛ր:



1. *Գտի՛ր 5 տարբերություն:*



2. *Լրացրո՛ւ պակասող թվերը:*

1			*4*	

	2			*5*

1. Հաշվի՛ր և գրանցի՛ր։



3	+	1	=	

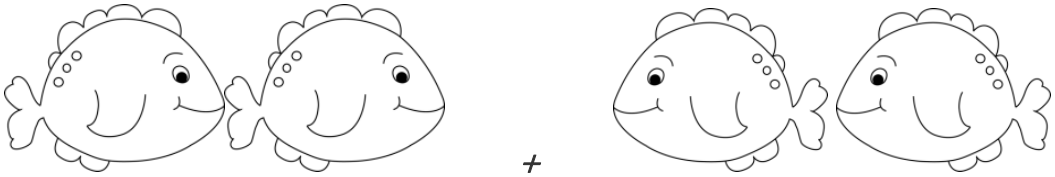

	+		=	



	+		=	



	+		=	

1. Համեմատի՛ր և դի՛ր համապատասխան նշանը: (<=>)

		
		
		

2. Ներկի՛ր նշված քանակով:

5	
4	

1. Կազմի՛ր հավասարություններ։



4	+		=	



	+		=	

2. Լրացրո՛ւ պակասող թվերը։

3	<	
5	>	
2	<	
4	>	

1. Քանի՞ կենդանի կա նկարում: Գրանցի՛ր:



2. Հաշվի՛ր:

1	+	4	=	5
3	+	2	=	
4	+	1	=	
2	+	3	=	
3	+	1	=	
2	+	1	=	

3. Համեմատի՛ր:

1	<	4
4	>	
3	<	
3	>	
5	>	
2	>	

1. Համեմատի՛ր և դի՛ր համապատասխան նշանը:



2. Լրացրո՛ւ պակասող թվերը:

1			4		

	2				6

1. Թվերը դասավորի՛ր փոքրից մեծ:

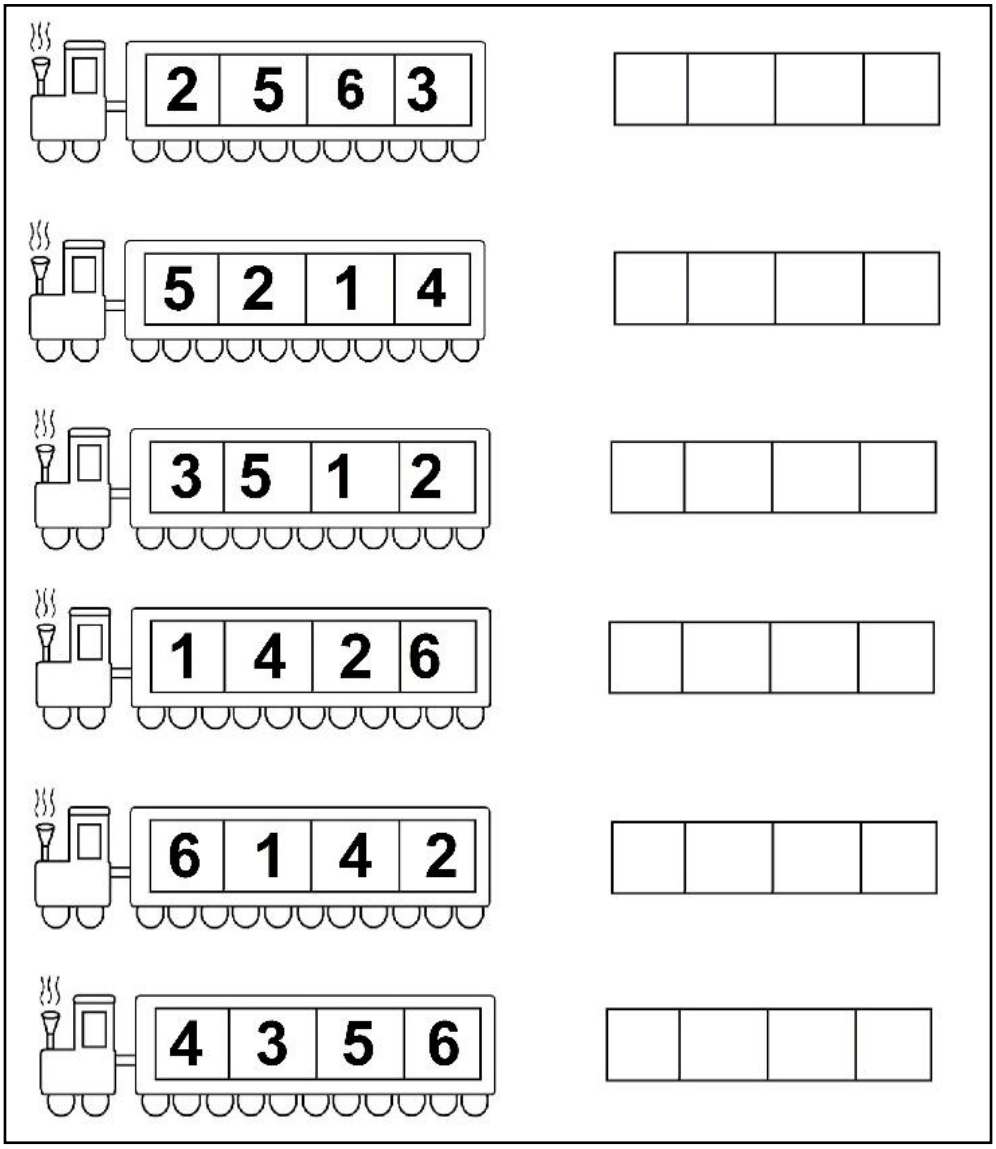

2. Գրի՛ր հարևան թվերը:

<	Թիվը	<
	3	
	5	

1. Ներկի՛ր. 1 – բաց կանաչ, 2 – մուգ կանաչ,3 – սպիտակ, 4 – դեղին, 5 – նարնջագույն, 6 – վարդագույն, 7 - մանուշակագույն



1. Կազմի՛ր հավասարություններ։

2 խնձորը ներկի՛ր դեղին, 3 խնձորը՝ կարմիր։



3	+	2	=	

2 խնձորը կարմիր ներկի՛ր, 3 խնձորը՝ դեղին։



1 խնձորը կանաչ ներկի՛ր, մնացածը՝ դեղին։



4 խնձորը կանաչ ներկիր, մնացածը՝ դեղին։



1. Կազմի՛ր հավասարություններ։





+







+

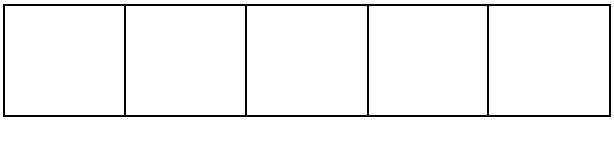





+



1. Թվերը դասավորի՛ր փոքրից մեծ:

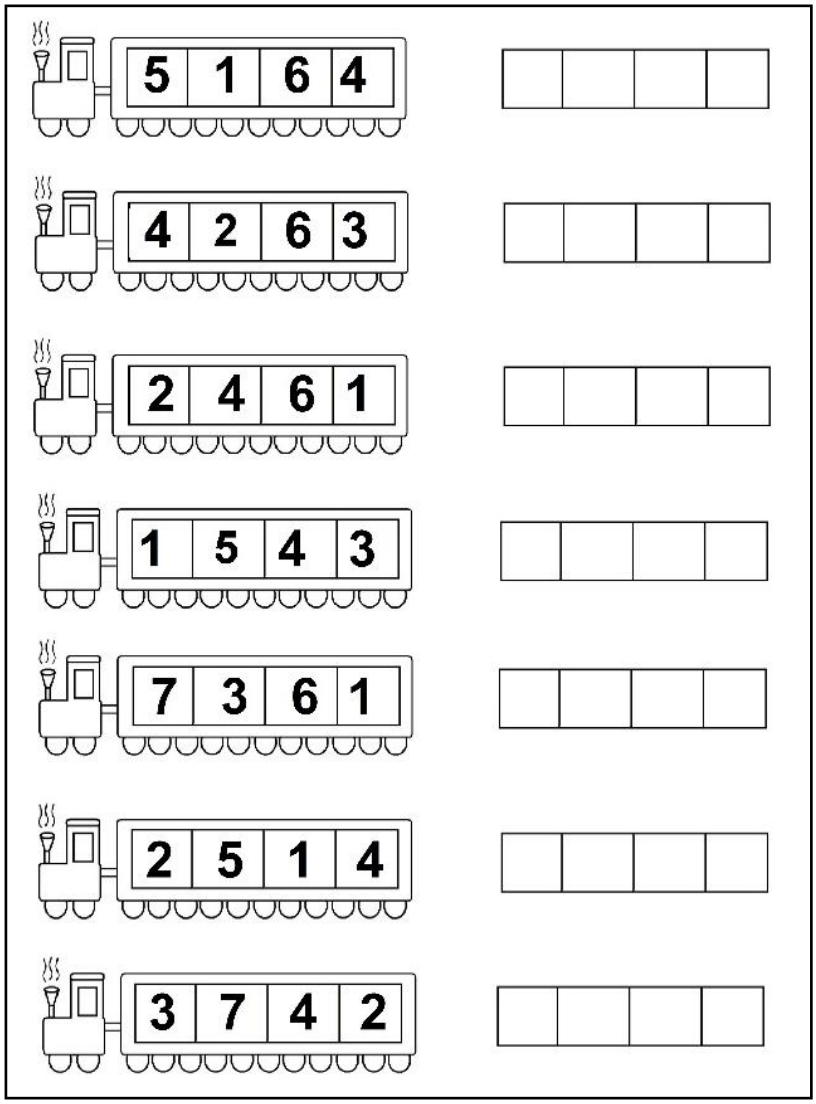

2. Գրի՛ր պակասող թվերը:

1					*6*	

7	*6*	*5*				

1. Ներկի՛ր նշված քանակով:

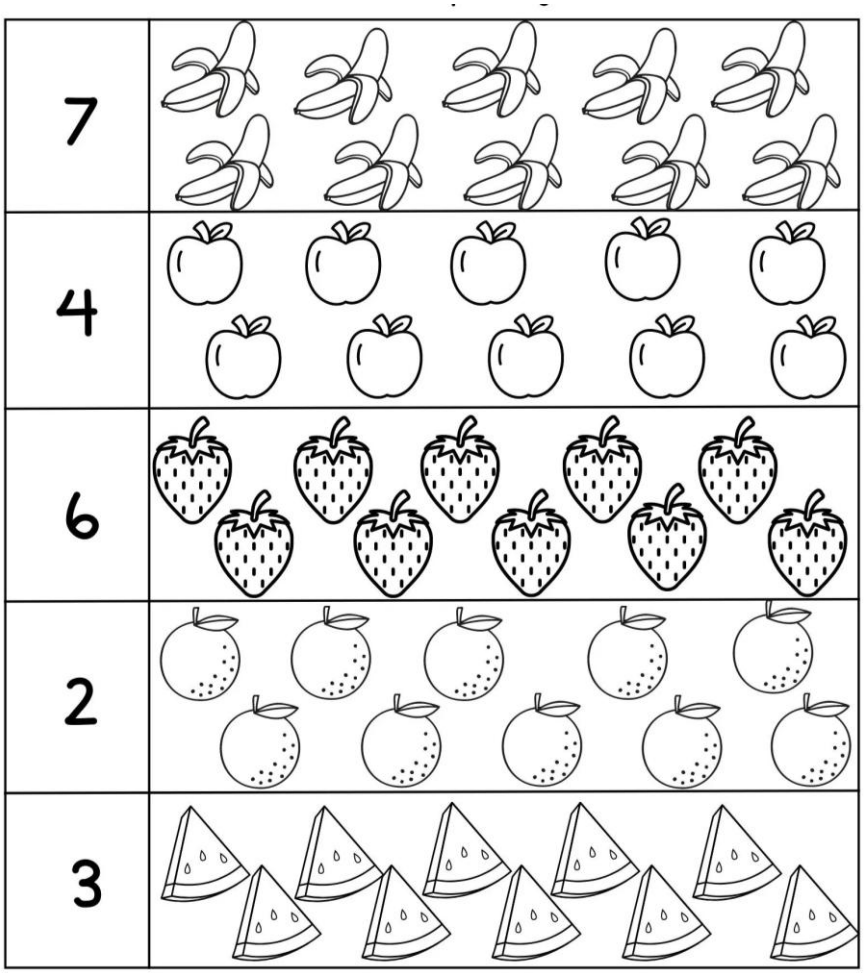

2. Գրի՛ր հարևան թվերը:

	4	
	7	
	2	
	5	
	3	

1. 6 գնդակից 2 գնդակը ներկի՛ր դեղին, մնացածը՝ կապույտ:

Քանի՞ կապույտ գնդակ ներկեցիր:

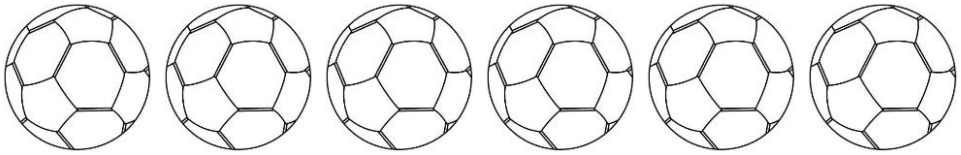

6 – 2 =

2.1 գնդակը ներկի՛ր կարմիր, մնացածը՝ կանաչ:

Քանի՞ կանաչ գնդակ ներկեցիր:

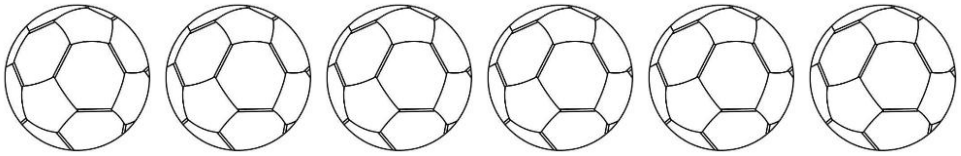

3. 3 գնդակը ներկի՛ր վարդագույն, մնացածը՝ երկնագույն:

Քանի՞ երկնագույն գնդակ ներկեցիր:

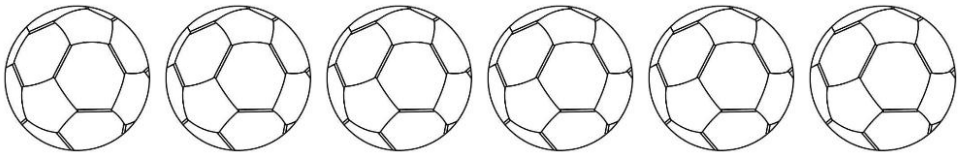

4. 2 գնդակը ներկի՛ր նարնջագույն, 2 գնդակը ներկի՛ր կանաչ, մնացածը ներկի՛ր կարմիր:

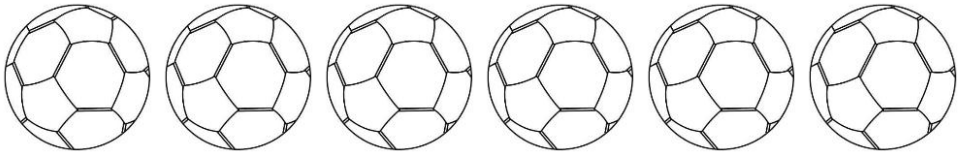

1. Խխունջը ո՞ր խնձորը կուտի :

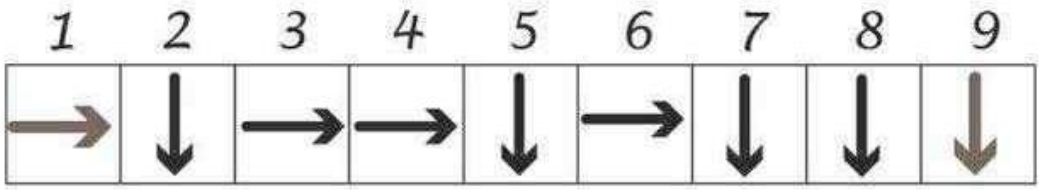

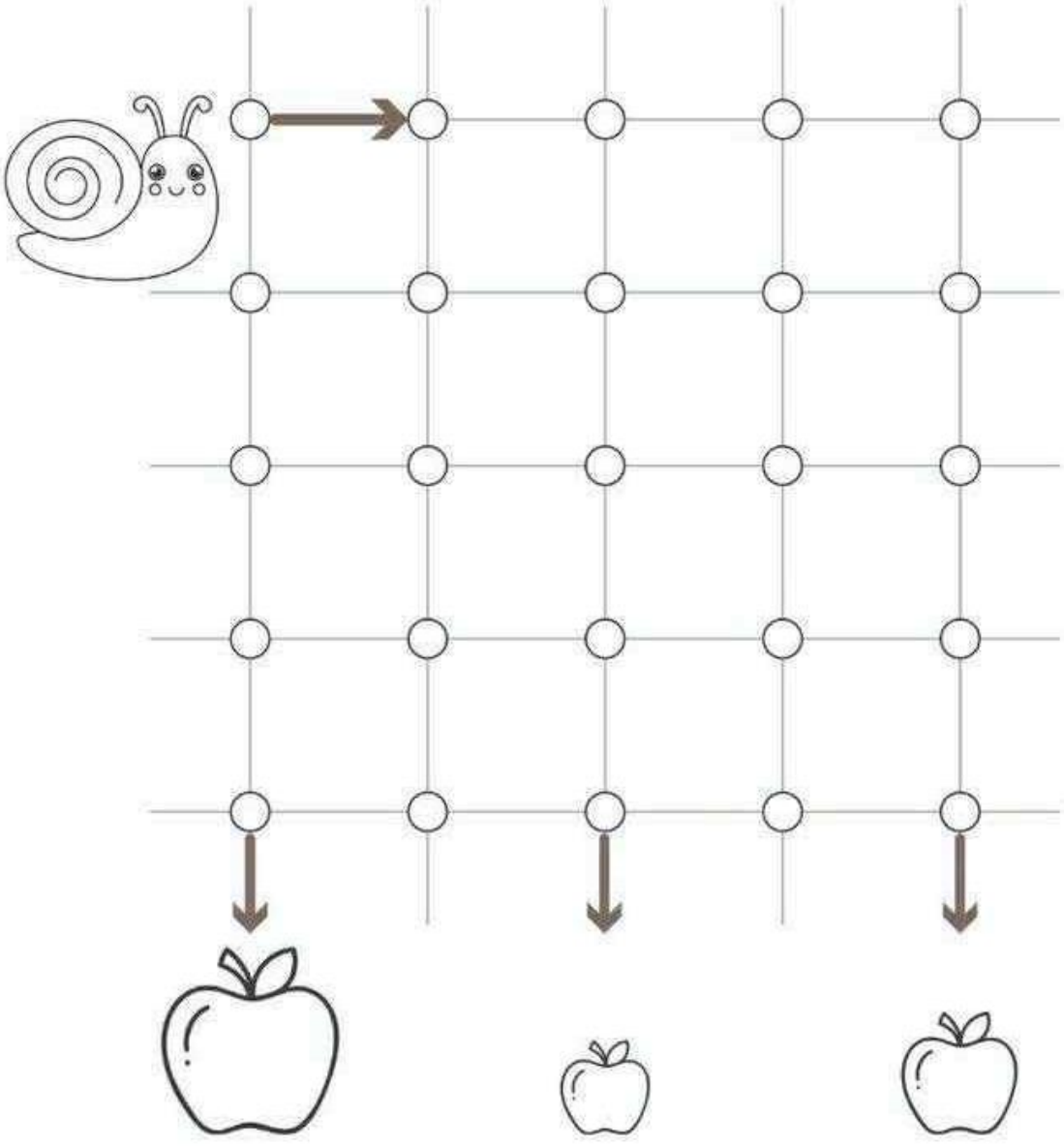

1. Գունավորի՛ր շաբաթվա օրերը.

երկուշաբթի - կանաչ

երեքշաբթի – դեղին

չորեքշաբթի – կապույտ

հինգշաբթի – նարնջագույն

ուրբաթ – կարմիր

շաբաթ – վարդագույն

կիրակի - երկնագույն

Օրացույց						
Շաբաթվա օրեր						
1-ին օր	2-րդ օր	3-րդ օր	4-րդ օր	5-րդ օր	6-րդ օր	7-րդ

1. Գտի՛ր թաքնված առարկաները:



1. *Կազմի՛ր անհավասարություններ:*

2	<	
4	>	
	<	7
	<	2
5	>	
	>	6
3	>	
1	<	

2.Համեմատի՛ր և դի՛ր համապատասխան նշանը: (<=>)

7		6
5		4
7		7
2		1
4		3
6		4
5		6

1. Կազմի՛ր հավասարություններ։



	+		=	



	+		=	

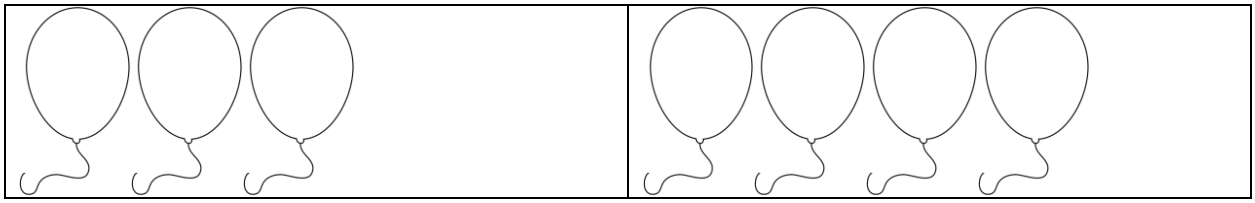

	+		=	

1. Լրացրո՛ւ տնակների դատարկ վանդակները:

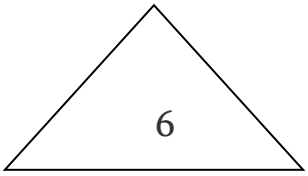

5	
4	
1	
3	
2	
6	

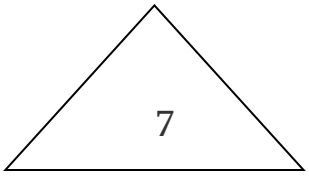

5	
3	
4	
6	
2	
6	
1	

2. Հաշվի՛ր:



6	-	3	=	



7	-	5	=	

1. *Կազմի՛ր արտահայտություններ և հաշվի՛ր արժեքը։*

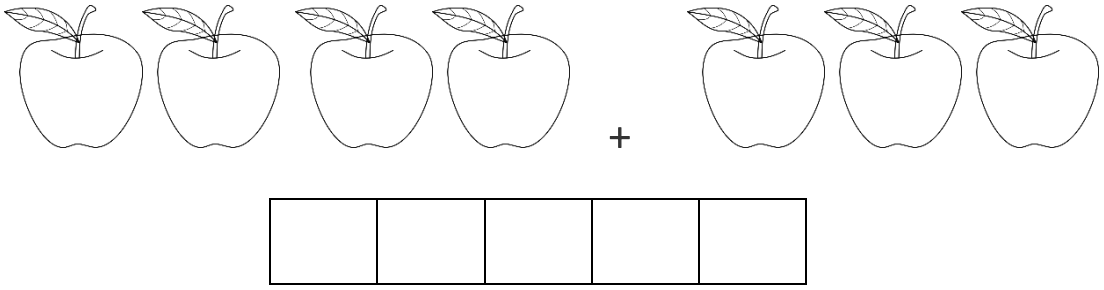

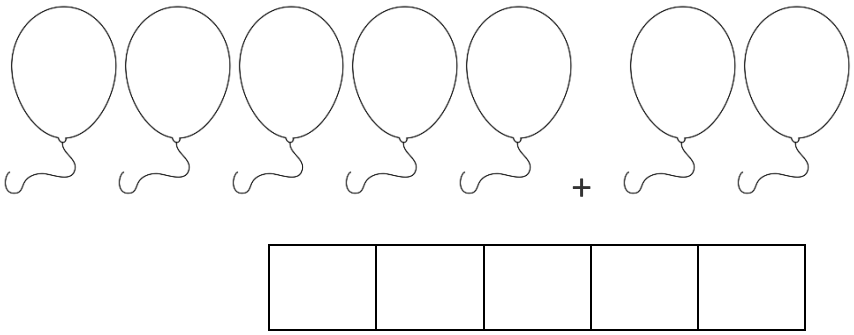

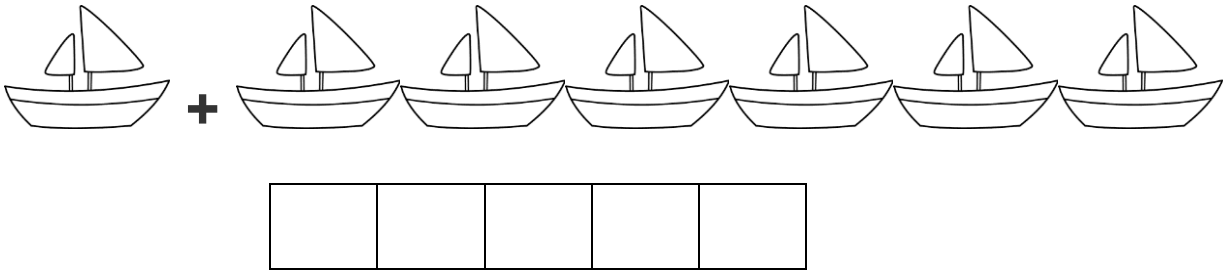

2. *Նկարի՛ր հաջորդող 2 պատկերները։*

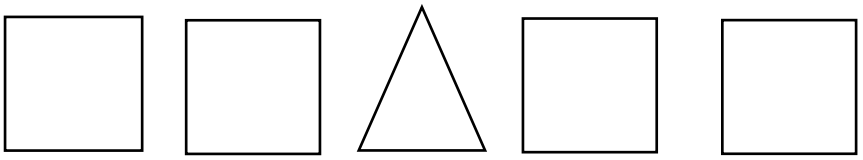

1. Կազմի՛ր արտահայտություններ և հաշվի՛ր արժեքը:

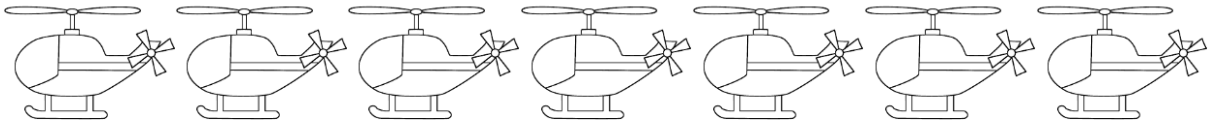

7	-	4	=	



7	-	3	=	



5	-	4	=	

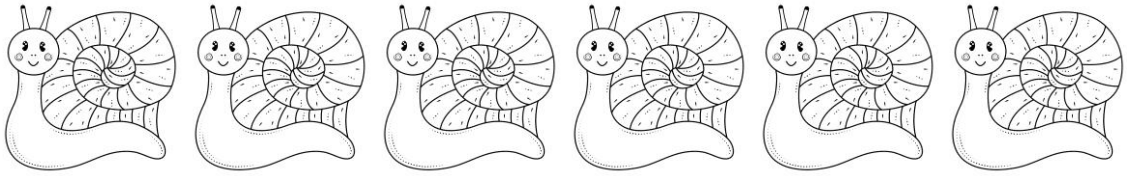

6	-	2	=	

1. Շարքում պակասող թվերը գրի՛ր:

1		*3*			*6*	
			4			*7*
	2					

2. Ավելացրո՛ւ 2:

4	6
1	
6	
3	
5	
2	

Ավելացրո՛ւ 3:

3	6
2	
5	
4	
1	

Փոքրացրո՛ւ 2-ով:

4	2
8	
5	
3	
6	
7	

1. Ներկի՛ր նշված քանակով:

4	
2	
6	
7	
3	
8	

7 պաղպաղակը ներկի՛ր կարմիր, 1 պաղպաղակը՝ դեղին։



7	+			

6 պաղպաղակը ներկի՛ր կանաչ, մնացածը՝ դեղին։



6	+			

3 պաղպաղակը ներկի՛ր կարմիր, մնացածը՝ կապույտ։



1. *Կազմի՛ր անհավասարություններ:*

3	<	
5	>	
	<	8
	<	4
8	>	
	<	3
8	>	
5	<	

1. *Համեմատի՛ր և դի՛ր համապատասխան նշանը: (<=>)*

7		8
8		4
6		7
2		5
3		4
6		5
7		6

1.Լրացրո՛ւ պակասող թվերը:



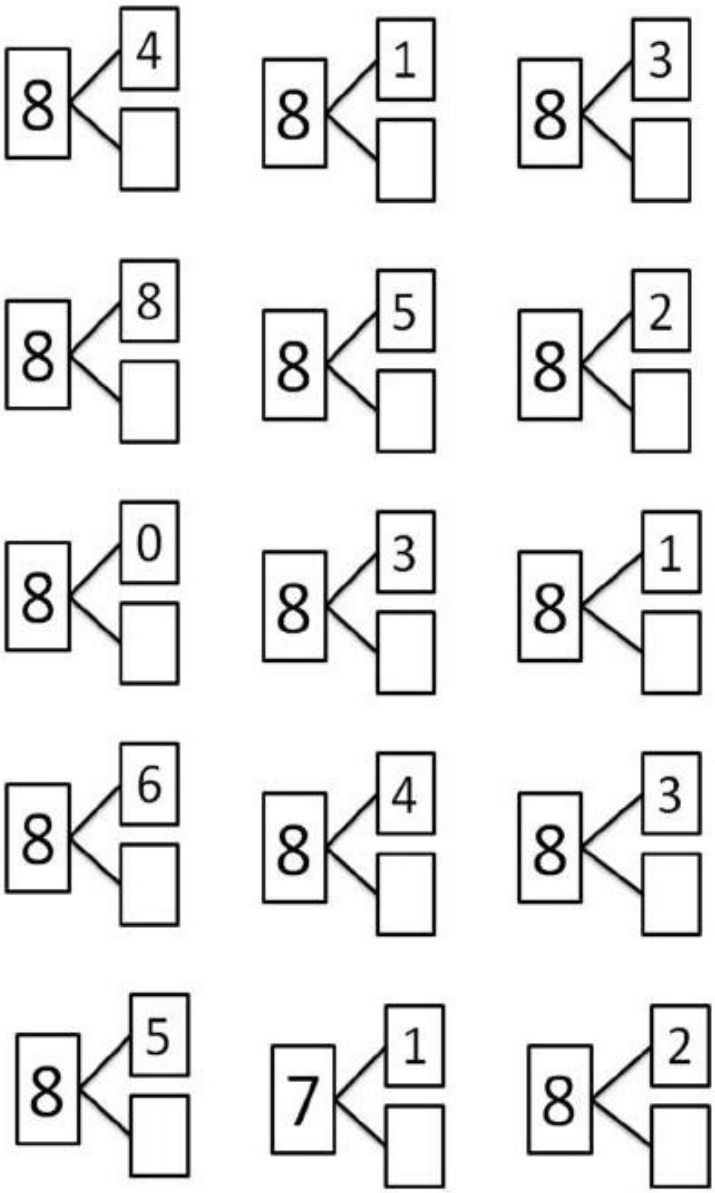

1. *Լրացրո՛ւ պակասող թվերը։*

7 = 5 + ☐	6 = ☐ + 3	4 = 2 + ☐	9 = 2 + ☐	5 = 4 + ☐
10 = ☐ + 7	8 = 1 + ☐	2 = 0 + ☐	3 = 1 + ☐	8 = 8 + ☐
10 = ☐ + 5	4 = 2 + ☐	5 = ☐ + 3	7 = 4 + ☐	1 = 1 + ☐
10 = ☐ + 0	8 = ☐ + 7	8 = 4 + ☐	10 = ☐ + 2	6 = 5 + ☐
5 = 2 + ☐	4 = ☐ + 0	6 = 5 + ☐	7 = 5 + ☐	5 = ☐ + 1

2. *Նկարի՛ր պատկերի կրկնօրինակը։*

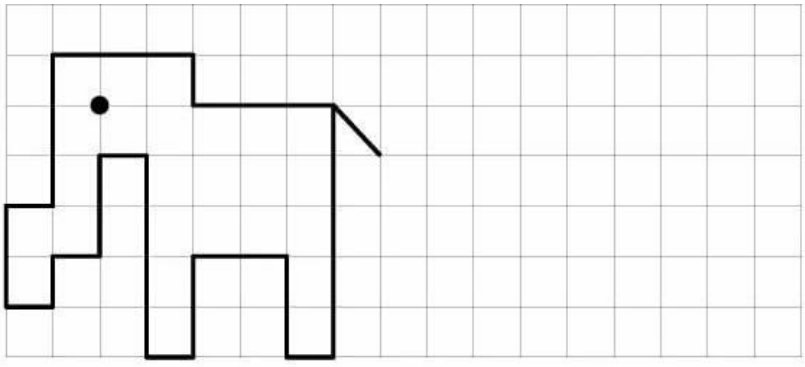

1. Սլաքների օգնությամբ կառուի՛ր պատկերը:

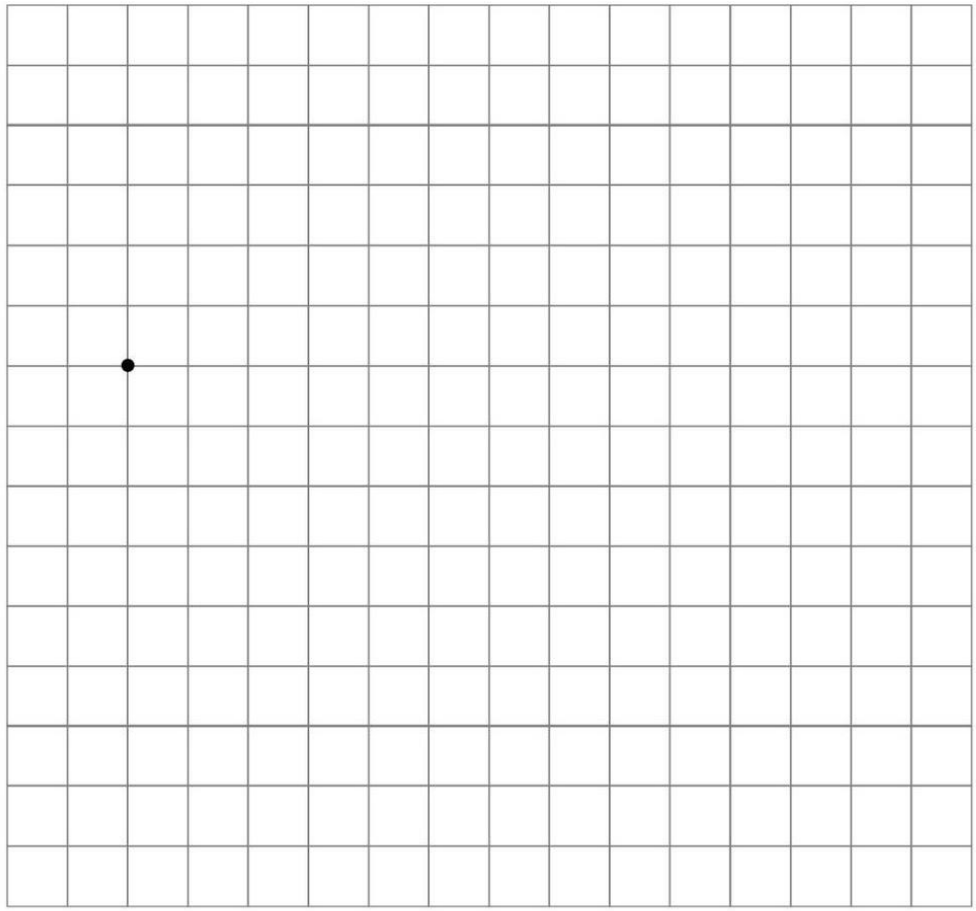

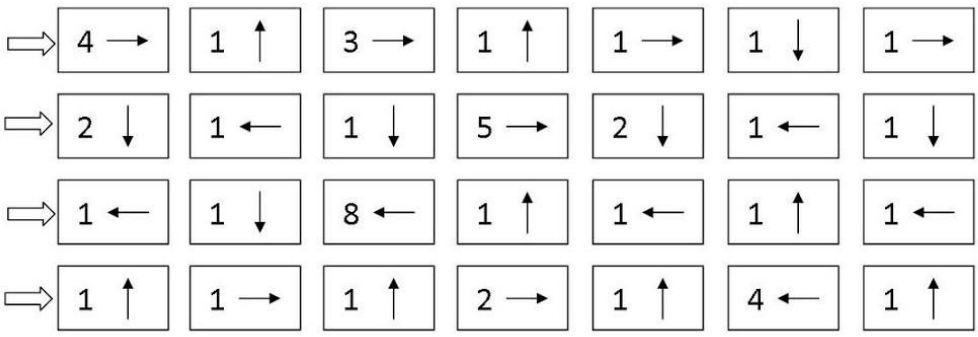

1. Համարակալի՛ր ծառերը։



8-րդ ծառի մոտ թիթեռ նկարի՛ր։

2.Համարակալի՛ր երեխաներին։ Չորրորդ երեխայի ձեռքին ձուկիկ նկարի՛ր։



1-ին երեխայի շապիկը կապույտ ներկի՛ր։

4-րդ երեխայի գլխին թագ նկարի՛ր։

9-րդ երեխայի ձեռքին փուչիկ նկարի՛ր։

Քանի՞ աղջիկ կա նկարում։

Քանի՞ տղա կա նկարում։

1. Կազմի՛ր հավասարություններ:









1. Հաշվի՛ր՝ քանի պատկեր կա նկարում:

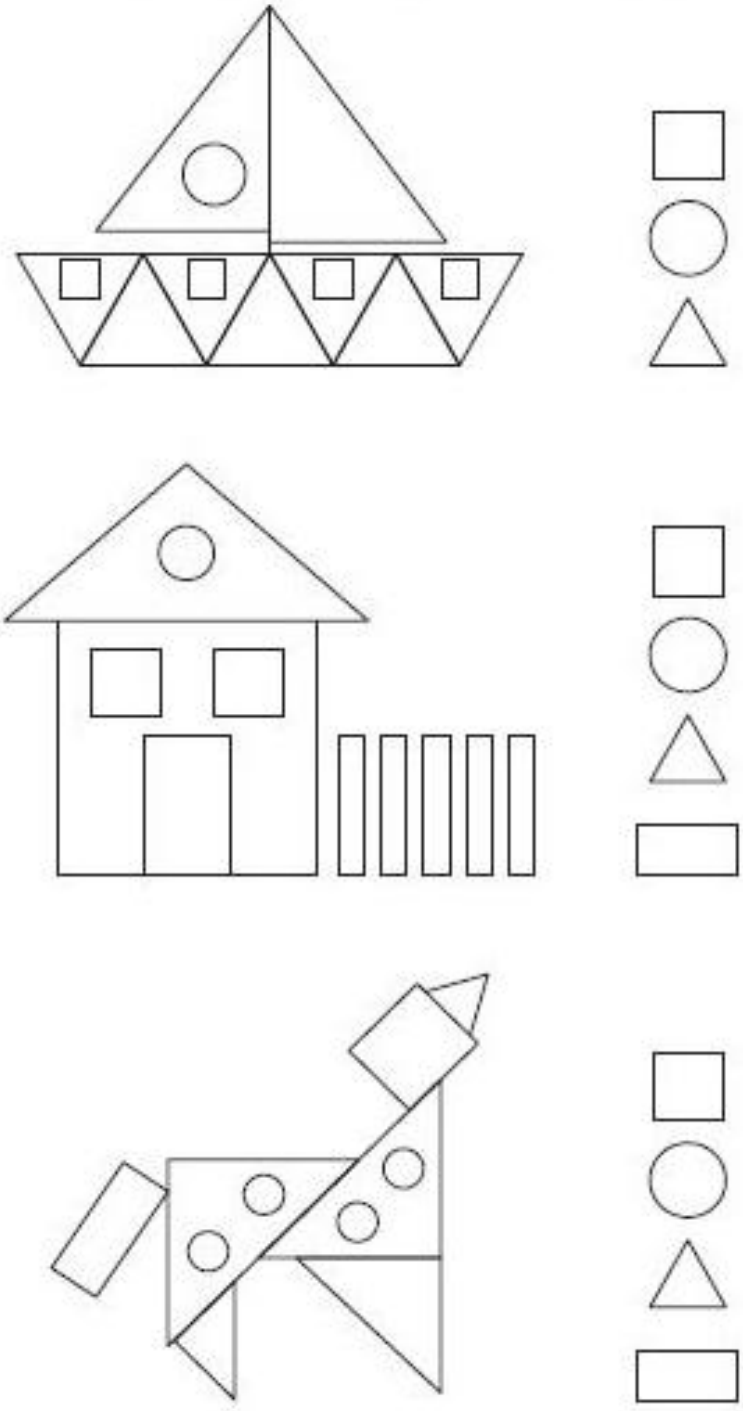

1. Լրացրո՛ւ շարքում պակասող թվերը:

1	*2*							

1						*7*		

			4					

2. Հաշվի՛ր:

4	+	4	=	
3	+	6	=	
7	+	1	=	
2	+	5	=	
3	+	4	=	
2	+	6	=	

3. Համեմատի՛ր:

1	<	4
9	>	
5	<	
2	>	
8	>	
6	>	

1. Համարակալի՛ր երեխաներին։



1									

Քանի՞ երեխա կա նկարում։

Քանի՞ աղջիկ կա նկարում։

Քանի՞ տղա կա նկարում։

3-րդ երեխայի գլխին գլխարկ նկարի՛ր։

7-րդ երեխայի ձեռքին փուչիկ նկարի՛ր։

10-րդ երեխայի ձեռքին դրոշակ նկարի՛ր։

2. Օգնի՛ր գտնել ճանապարհը։



1. Համարակալի՛ր տները։



1-ին տան պատուհանները ներկի՛ր քո սիրելի գույնով։

2-րդ տան տանիքը ներկի՛ր կարմիր։

4-րդ տան դուռը ներկի՛ր կանաչ։

5-րդ տան տանիքը ներկի՛ր դեղին։

8-րդ տան դուռը ներկի՛ր կապույտ։

10-րդ տան տանիքը ներկի՛ր կարմիր։

1. Լրացրո՛ւ պակասող թվերը:

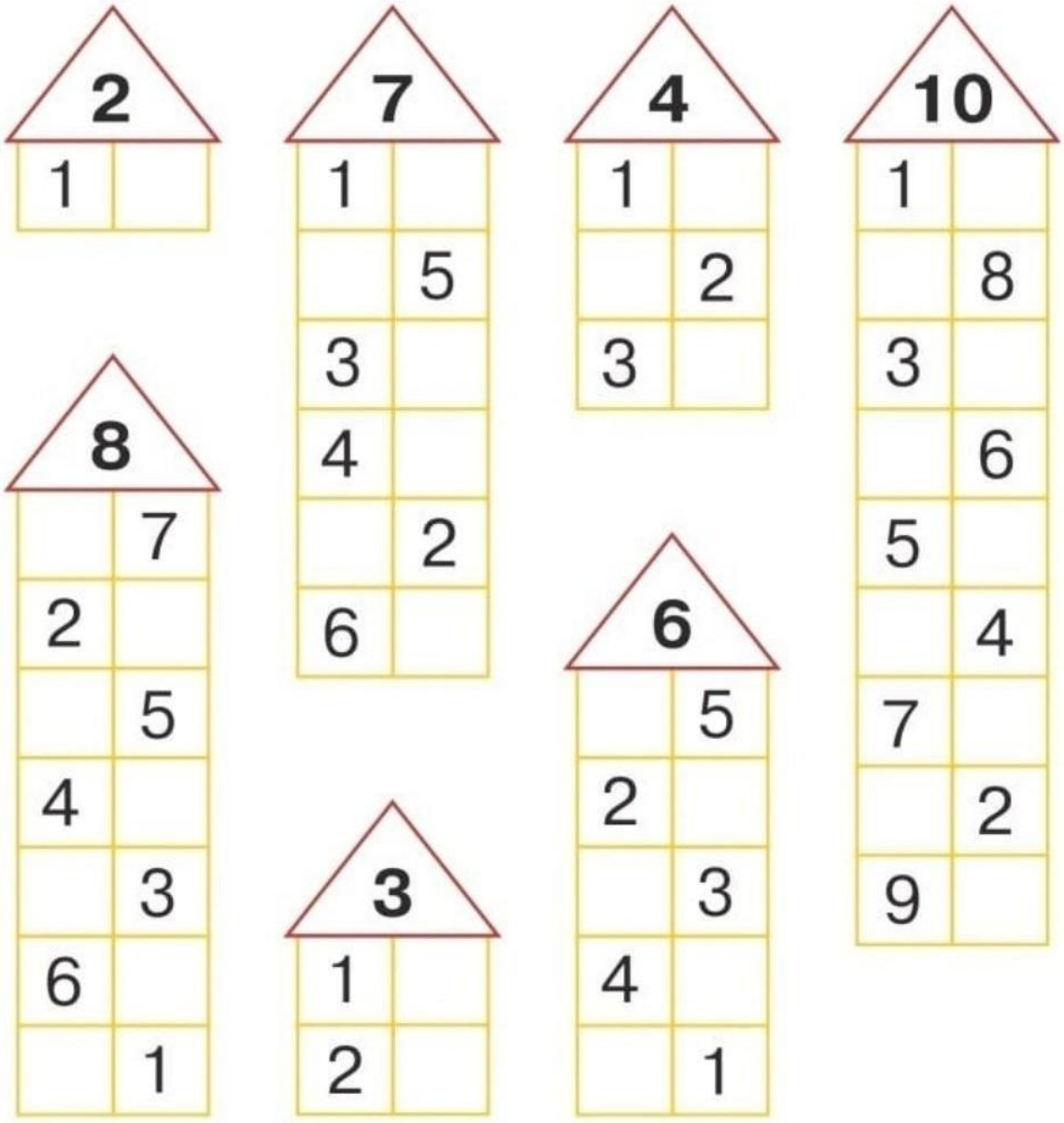

2. Հաշվի՛ր:

7 + 2 = *6 + 3 =* *5 + 5 =*

4 + 4 = *3 + 7 =* *6 + 2 =*

1.Ժամը քանի՞ան է:

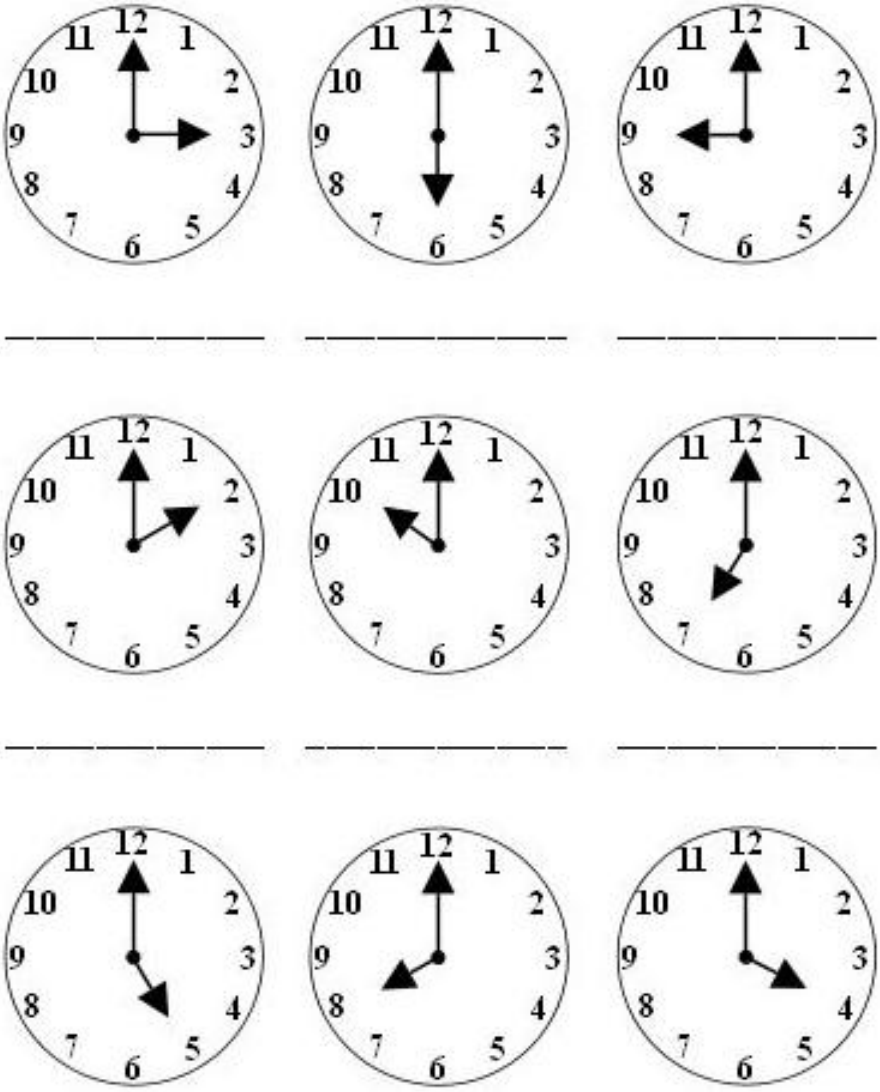

2. Հաշվի՛ր:

8 - 2 =	*10 - 3 =*	*5 - 5 =*
7 - 4 =	*9 - 7 =*	*8 - 5 =*

3. Համեմատի՛ր և դի՛ր համապատասխան նշանը:

8 ... 7	*10 ... 9*	*7 ....7*
10 ... 4	*9 .... 8*	*6 .... 7 =*

1. Գրի՛ր պակասող թիվը։

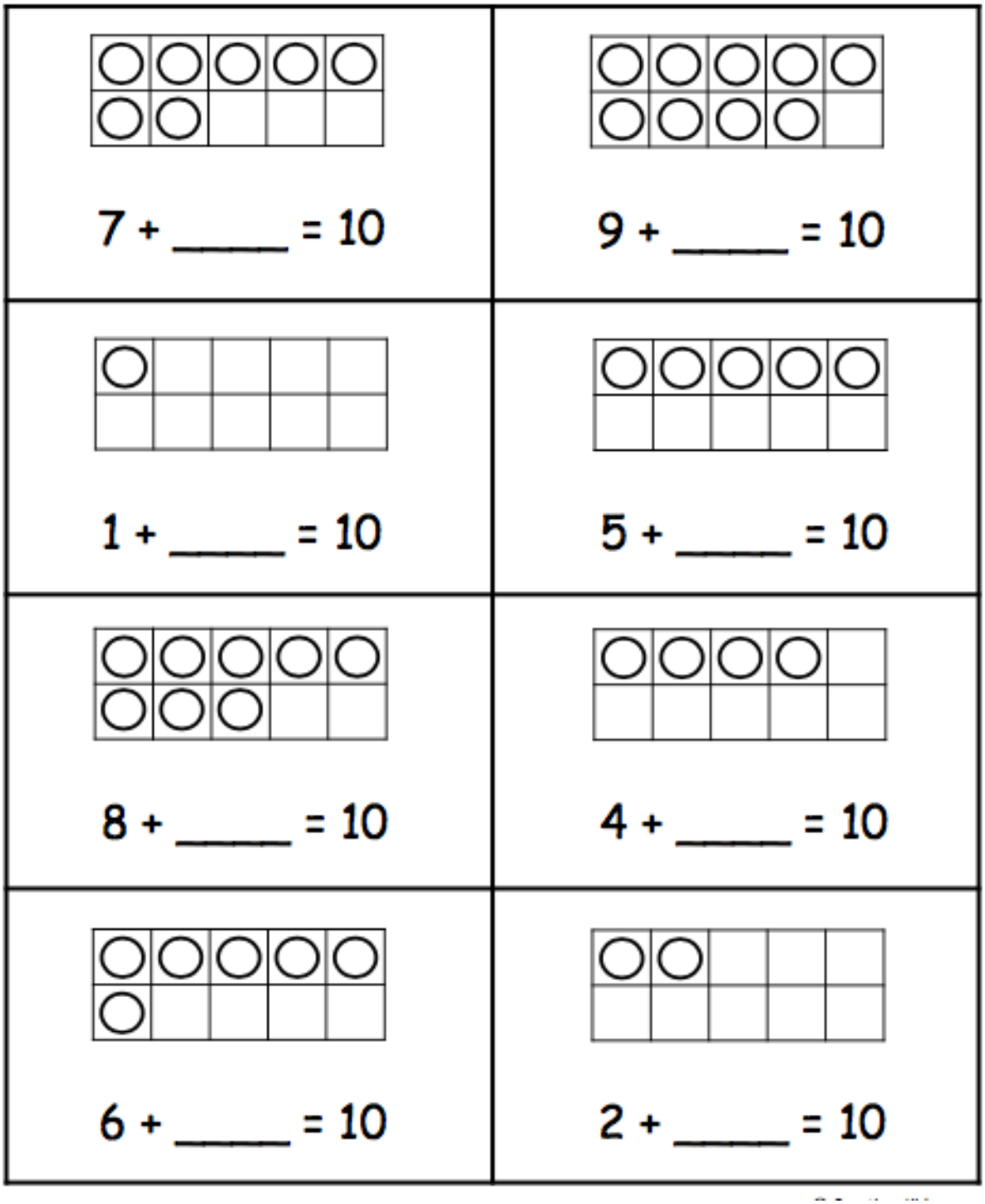

2. Շարքում պակասող թվերը գրի՛ր։

10	9								1